1) Jaké je gravitační zrychlení na povrchu Měsíce?

$$a_g = \varkappa \cdot \frac{M_{měs.}}{r^2} = 6{,}67 \cdot 10^{-11} \cdot \frac{7{,}4 \cdot 10^{22}}{(1{,}737 \cdot 10^6)^2} \; ms^{-2}$$

$$= \frac{6{,}67 \cdot 7{,}4}{(1{,}737)^2} \cdot \frac{10^{22}}{10^{11} \cdot 10^{12}} \; ms^{-2}$$

$$\underbrace{(1{,}737)^2}_{16{,}4} \qquad \underbrace{10^{11} \cdot 10^{12}}_{10^{-1}}$$

$$= \underline{1{,}64 \; ms^{-2}} \longrightarrow$$ cca 8× menší než na Zemi

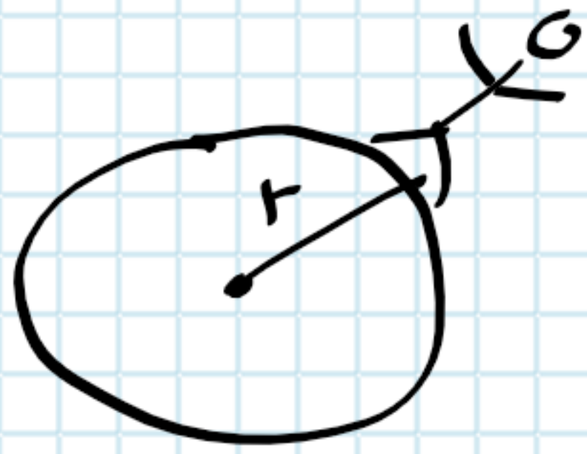

2) Neutronová hvězda

$r = 10 \; km$

$M = 4 \cdot 10^{30} \; kg$

$$a_g = \varkappa \cdot \frac{M}{r^2} = 6{,}67 \cdot 10^{-11} \cdot \frac{4 \cdot 10^{30}}{(10^4)^2} \; ms^{-2}$$

$$= 6{,}67 \cdot 4 \cdot \frac{10^{30}}{10^{11} \cdot 10^8} \; ms^{-2} =$$

$$= \ldots\ldots \cdot 10^{12} \; ms^{-2}$$

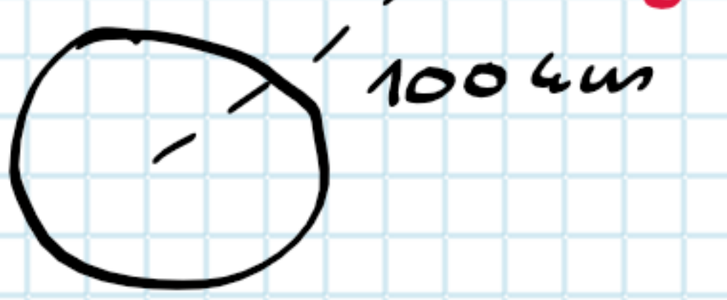

Tíhová a gravitační síla

Gravitační síla → síla popsaná Newtonovým gravitačním zákonem

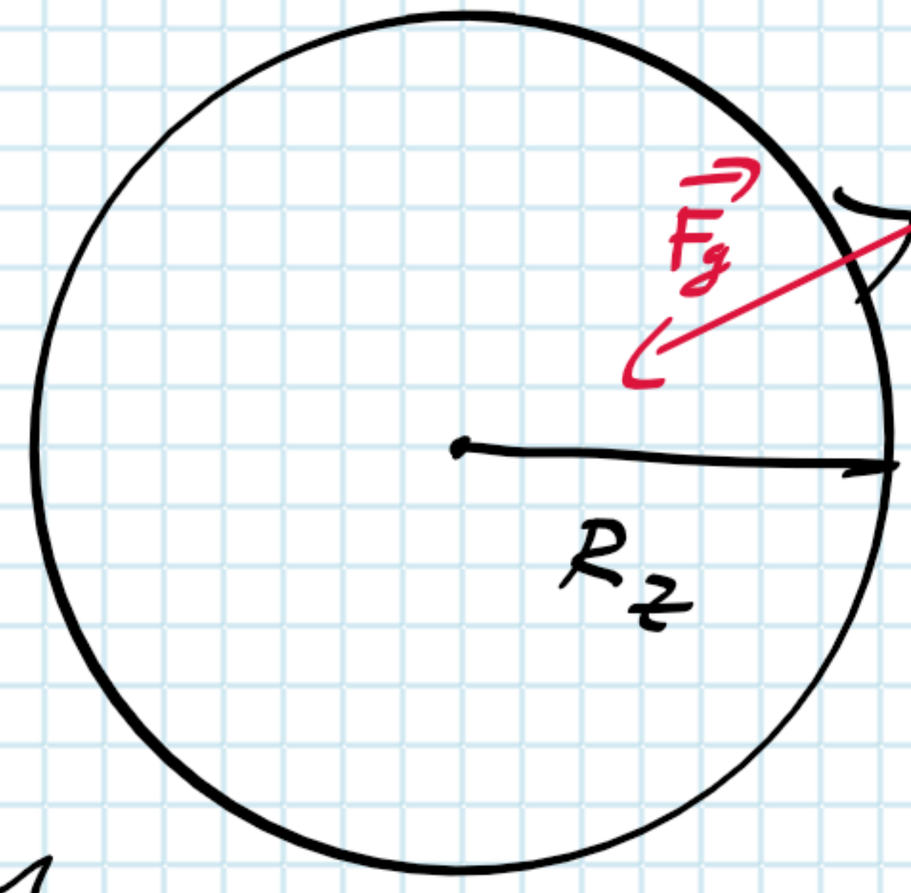

M_z

Země tíhne ke středu, otáčí se!

m ... velikost dílčí tomu, že Země i těleso na jejím povrchu mají nějakou hmotnost

$$F_o = m\omega^2 r$$

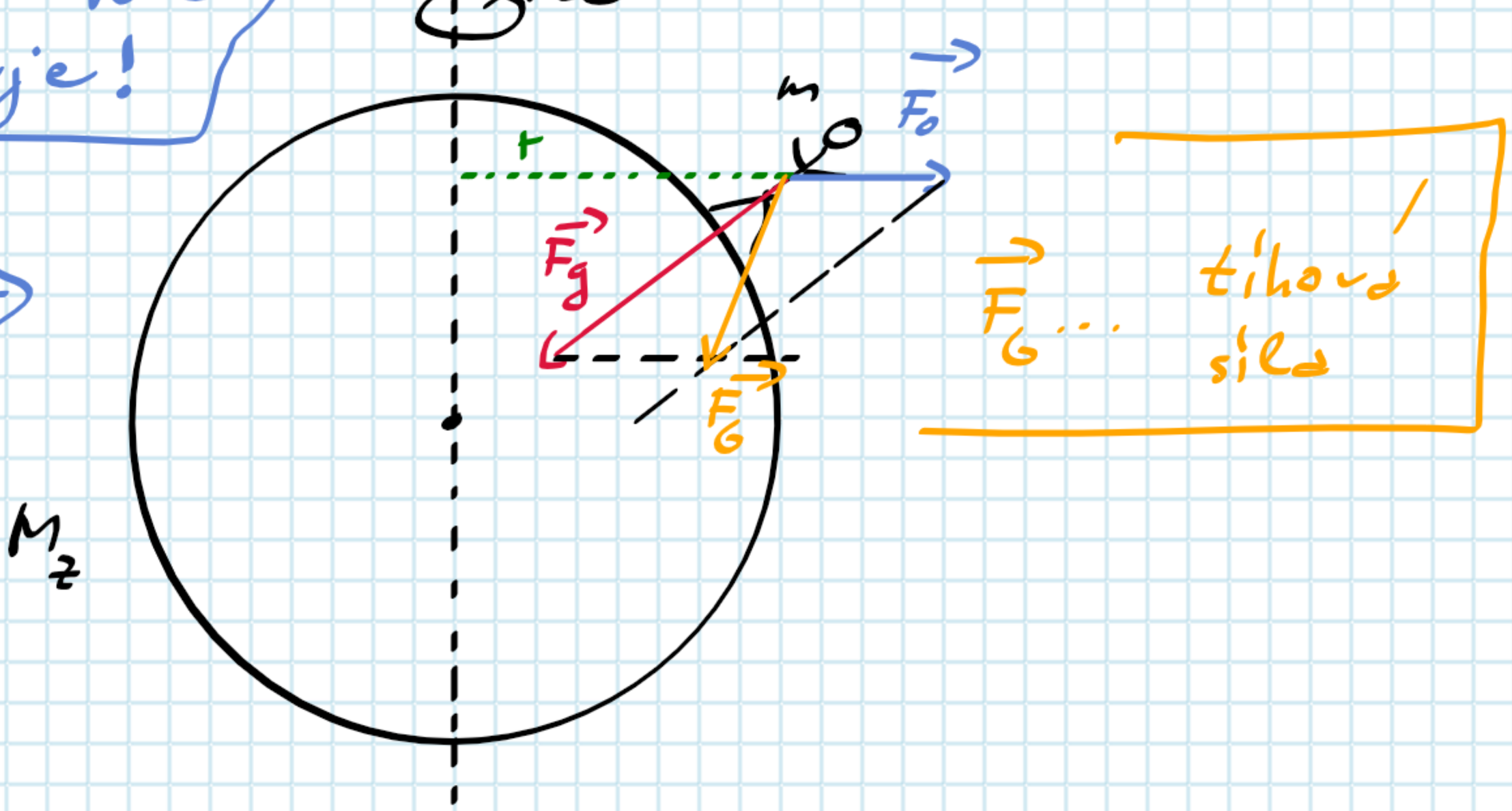

$\vec{F_G}$ ... tíhová síla

:

1) Je určitě $\vec{F_g} = \vec{F_G}$?

→ na pólech ... vzdálenost od osy otáčení nulová

$F_o = 0 \Rightarrow F_g = F_G$

- na rovníku

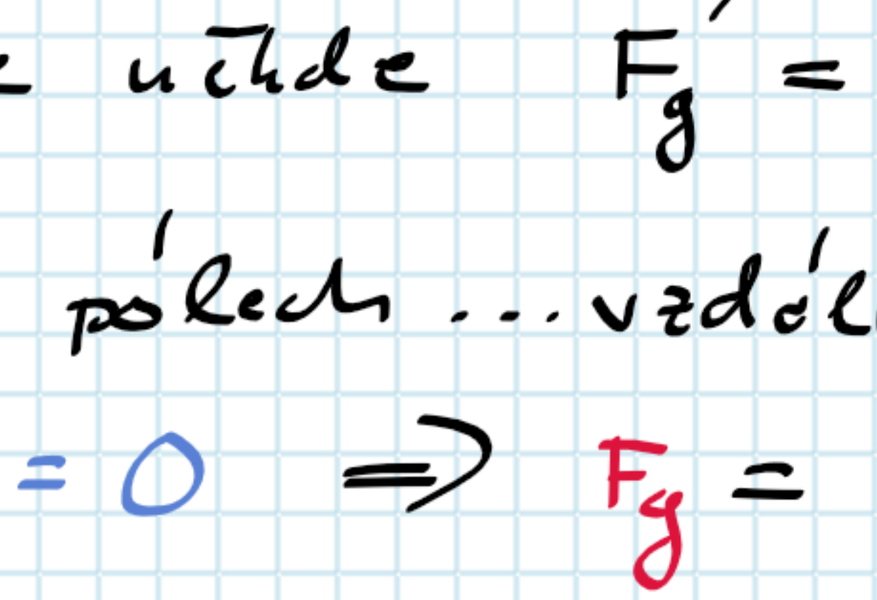

- F_o největší!
- F_G nejmenší!